口袋网校---专注小学语数英同步辅导
扫码下载，即可获得更多优质资源

第一单元测试卷

一、填空题。

1. 在方框里填上合适的数。

5+5+5+5+5+5=30 □×□=□ 或 □×□=□

8+8+8=24 □×□=□ 或 □×□=□

9+9+9+9=36 □×□=□ 或 □×□=□

2. 8 乘 5 写作(　　)，5 乘 8 写作(　　)。

3. 两个因数都是 4，乘法算式是(　　)，积是(　　)。

4. 先把口诀补充完整，再写出两道乘法算式。

二(　　)十八　　三四(　　)　　三(　　)二十七

_____　　_____　　_____

_____　　_____　　_____

5. 在○里填上“>”“<”或“=”。

3 × 2 ○ 5　　3 × 3 ○ 6　　2 + 2 ○ 4　　4 × 3 ○ 8

4×2 ○ 12　　4×4 ○ 8　　1×1 ○ 2　　3×4 ○ 16

二、直接写出得数。

3×2=	2×4=	4×1=	3 × 4=
4×1=	5×1=	3×3=	5 × 3=
2×2=	4×2=	5×4=	4 + 4 =

三、写出乘法算式，并算出得数。

1. 4 乘 5 得多少？　　2. 3 个 4 相加得多少？

_____　　_____

3. 两个因数都是 5，积是多少？　　4. 5 个 3 相加得多少？

_____　　_____

四、看图列式计算。

1. 先填一填，再写出乘法算式。



每盘有(　　)个 ，有(　　)盘，一共有(　　)个。

□ ○ □=□(个)

试卷，字帖，图案，模板下载打印
扫码下载，即可获得更多优质资源

口袋网校---专注小学语数英同步辅导
扫码下载，即可获得更多优质资源

2. 看图写算式。



□+□=□(个)

□×□=□(个)

□+□+□+□=□(只)

□×□=□(只)

3. 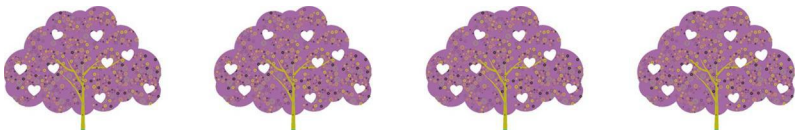

□+□+□+□=□(个)

□×□=□(个)　□×□=□(个)

4. 

□○□○□=□(只)或□○□○□=□(只)

五、解决问题。

1. 下面是游乐场中过山车和旋转木马的图片。

(1) 坐过山车的一共有多少人?

□○□=□(人)

(2) 旋转木马上一共能坐多少人?

□○□=□(人)

试卷，字帖，图案，模板下载打印
扫码下载，即可获得更多优质资源

口袋网校---专注小学语数英同步辅导
扫码下载，即可获得更多优质资源

2. 操场上一共有多少个小朋友?

□○□=□(个)

3. 看图解决问题。



(1) 跳绳的有多少人?

□○□=□(人)

(2) 做操的有多少人?

□○□=□(人)

(3) 你还能提出什么数学问题?

4. 每张桌子最多可以坐 8 人, 4 张桌子最多可以坐多少人?

5. 李老师带 6 个同学去公园游玩, 每张门票 5 元, 他们一共需要多少元钱?

试卷，字帖，图案，模板下载打印
扫码下载，即可获得更多优质资源

口袋网校---专注小学语数英同步辅导
扫码下载，即可获得更多优质资源

第一单元测试卷参考答案

一、1. 5×6=30　6×5=30　3×8=24　8×3=24

4×9=36　9×4=36

2. 8×5　5×8

3. 4×4　16

4. 九　2×9=18　9×2=18　十二

3×4=12　4×3=12　九　3×9=27

9×3=27

5. ＞　＞　=　＞　＜　＞　＜　＜

二、6　8　4　12　4　5　9　15　4　8　20　8

三、1. 4×5=20　2. 3×4=12　3. 5×5=25

4. 5×3=15

四、1. 3　5　15　3×5=15

2. 8+8=16　8×2=16

2+2+2+2=8　2×4=8

3. 9+9+9+9=36　4×9=36　9×4=36

4. 3×3+2=11　3×4-1=11

五、1. (1)2×8=16　(2)2×5=10

2. 4×3=12

3. (1)3×4=12　(2)5×5=25　(3)略

4. 4×8=32(人)

5. 6+1=7(人)　5×7=35(元)

试卷，字帖，图案，模板下载打印
扫码下载，即可获得更多优质资源